Révisions 1 pour le 15 et 16 juin Correction

1) Indique le chiffre des dizaines dans

37 ...3... 18 ...1... 99 ...9... 8 ...0...

Indique le chiffre des unités dans

23 ...3... 80 ...0 54 ...4... 4 ...4...

2) Complète les petits doubles :

6 + 6 = ...12... 8 + 8 = ...16... 4 + 4 = ...8... 3 + 3 = ...6...

3) Donne la moitié des nombres suivants :

La moitié de 4, c'est ...2...

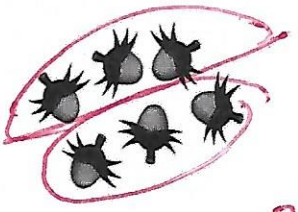

La moitié de 6, c'est ...3...

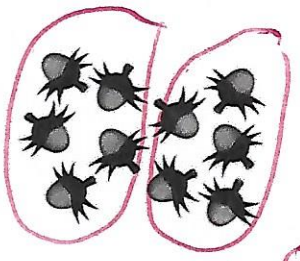

La moitié de 10, c'est ...5...

faire 2 paquets identiques.

4) Ecris les heures indiquées sur ces horloges.



Il est ...3... h ...00... min.



Il est ...8... h ...30... min.

Il est ...6... h ...00... min.

Il est ...12... h ...30... min.

5) Place les aiguilles selon les heures indiquées .

Il est 2 h 00 min.

Il est 12 h 00 min.

Il est 5 h 30 min.

Il est 7 h 00 min.